MATEMÁTICAS 1
TAREAS: SEMANA 11 DEL 2024
CICLO ESCOLAR 2023-2024

Lunes 11 de Marzo del 2024

Tarea:

a) Realiza tu portada del 3er Periodo, debe tener Nombre de la escuela, Materia (Matemáticas I), 3er Periodo, Nombre del alumno, Número de lista y Nombre del profesor.
b) Después de tu portada dejaras 4 páginas en blanco para pegar tu temario (2 hojas) y tu escala evaluativa (1 hoja) y tus controles (1 hoja)
c) Después de lo anterior transcribe o pega la impresión del siguiente ejercicio.

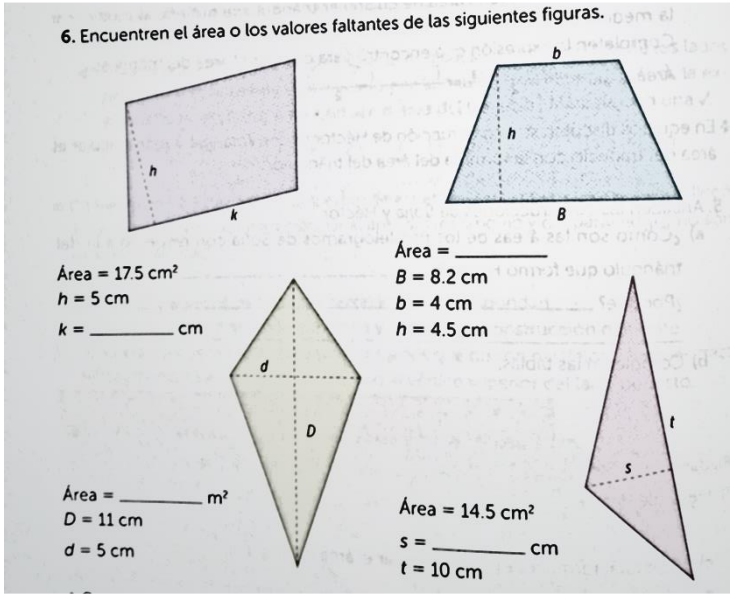

Martes 12 de Marzo del 2024

Tarea: Resuelve los siguientes ejercicios.

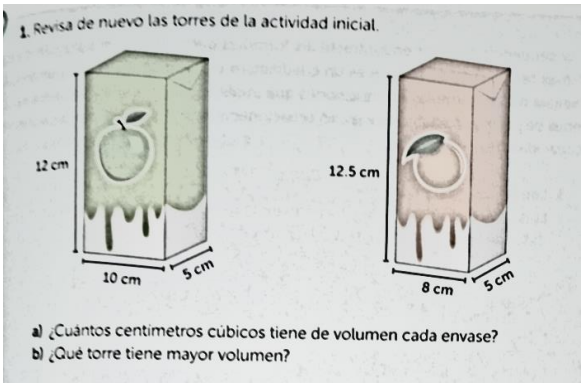

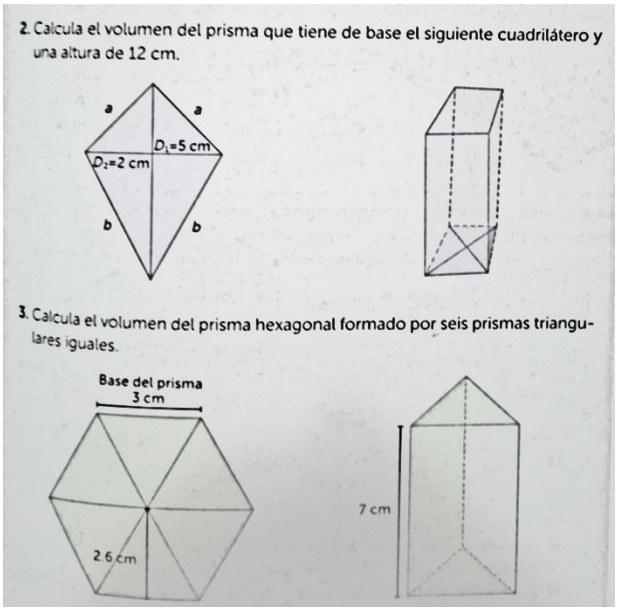

Miércoles 13 de Marzo del 2024

Tarea: Utiliza la recta numérica para resolver los ejercicios.



Número	Simétrico del número
Una ganancia de \$3: M = +3	Una pérdida de \$3: A = – 3
Una pérdida de \$2:	Una ganancia de \$2: .....
Un grado sobre cero:	Un grado bajo cero: .....
Una deuda de \$3.50:	Un pago de \$3.50: .....
$2\frac{1}{2}$ grados sobre cero:	$2\frac{1}{2}$ grados bajo cero: .....

▶ **¿Qué letra de la recta numérica de arriba corresponde a cada situación?**

Recuerda que el valor absoluto de un número, geométricamente representa la distancia de este número al cero.
Por ejemplo, |–3| = 3. "El valor absoluto de –3 es 3 porque de –3 al cero hay 3 unidades."

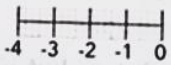

▶ **Completa y responde:**

|–2| = ... |–2.5| = ... |–3.5| = ... |9| = ...

|19| = ... |–1.5| = ... |–4| = ... |–3| = ...

|–6| = ... |–19| = ...

1. En la recta numérica de arriba, ¿a qué letras les corresponde un número cuyo valor absoluto es $\frac{1}{2}$? .....

2. ¿A qué letras, en la recta numérica de arriba, les corresponde un número cuyo valor absoluto es 2.5? .....

MATEMÁTICAS 1
TAREAS: SEMANA 11 DEL 2024
CICLO ESCOLAR 2023-2024

Jueves 14 de Marzo del 2024

Tarea: Responde las operaciones de cada inciso.

T. (+5) + (–8) = ...

N. (–6) + (4) = ...

S. (–2) + (–5) + (–4) = ...

A. (–3) – (–6) = ...

I. (–8) + (–7) – (–2) = ...

R. (–6) – (–2) = ...

L. (+2) – (–3) – (–1) = ...

V. –(–9) + (–5) + (–3) + (–1) = ...

U. (–6) – (–2) – (+4) = ...

M. (+6) + (–5) – (–1) = ...

¿Dónde queda ubicado el castillo del conde Drácula? Escribe la letra que corresponda a la respuestas del ejercicio anterior y lo sabrás.

.....	.....	.....	.....	.....	.....	.....	.....	.....	.....	.....	.....
–3	–4	3	–2	–11	–13	6	0	3	–2	–13	3

.....	.....	.....	.....	.....	.....	.....
–4	–8	2	3	–2	–13	3

MATEMÁTICAS 1
TAREAS: SEMANA 11 DEL 2024
CICLO ESCOLAR 2023-2024

Viernes 15 de Marzo del 2024 Sin Tarea
Tarea: Responde las operaciones de cada inciso.

La gráfica representa la posición de los barcos de una flota.

	Barcos	Puntos de localización
1	A	
2	M	
3	B	
4	V	
5	faro	
6	C	(–8, 3)
7	D	(9, –6)
8	L	(–2, –5)
9	O	(–5, –10)
10	I	(6, –3)

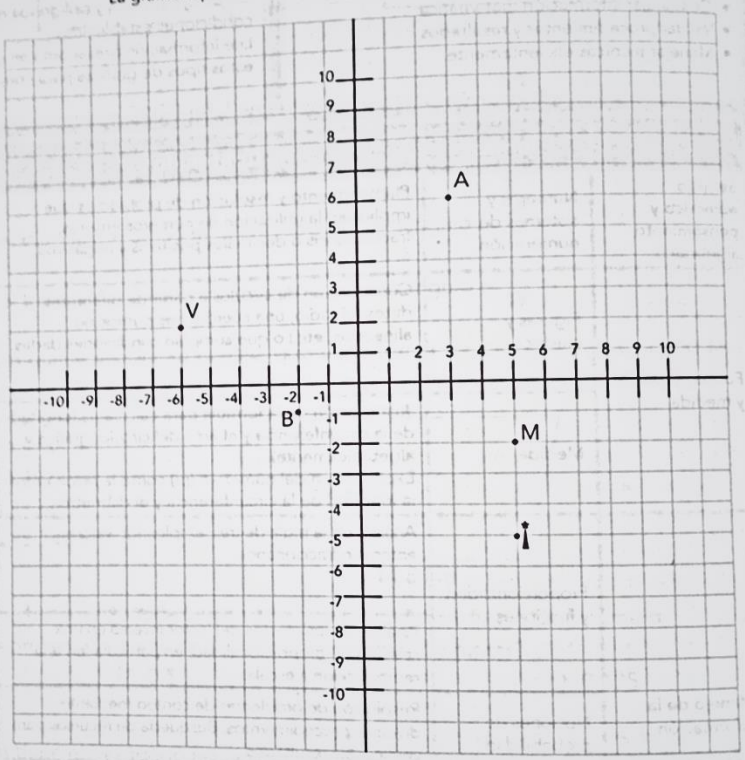

TIC

Ingresa a https://goo.gl/RA9s0F y elige el interactivo de puntos. Utiliza el modelador virtual del plano cartesiano para ubicar puntos.

▶ Ubica las letras correspondientes a cada barco, según la coordenada indicada debajo de cada línea, y sabrás el nombre de la flota.

☐ 1 ☐ 2 ☐ 9 ☐ 8 ☐ 1 ☐ 4 ☐ 10 ☐ 7 ☐ 1